Examen Bimestral

Quinto Grado

Cuarto Bimestre

Nombre del Alumno:_____

Grado y Grupo: _____ Fecha:_____

Escuela:_____

ASIGNATURA	***ACIERTOS***	***CALIFICACIÓN***
Español		
Matemáticas		
Ciencias Naturales		
Historia		
Geografía		
Formación Cívica Y Ética		
Promedio		

ESPAÑOL

Lee el siguiente texto y después contesta las seis primeras preguntas

La anorexia nerviosa y la bulimia son enfermedades devastadoras que han cobrado una dimensión inusitada entre los jóvenes de todo el mundo y de todas las clases sociales, pero atrapan y golpean con mayor fuerza a las mujeres.

El término anorexia nerviosa proviene del latín y quiere decir sin apetito, y el adjetivo nerviosa expresa su origen psicológico. Sin embargo, no es cierto que los jóvenes anoréxicos no sientan hambre, al contrario, la reprimen por el pavor que tienen a la obesidad. Estos jóvenes rechazan en forma contundente el mantener un peso corporal por encima de los valores mínimos aceptables para una determinada edad y talla. *"El miedo que experimentan hacia la obesidad los lleva hasta la inanición y a la pérdida progresiva de peso. Y lo más grave es que no tienen conciencia de su enfermedad",* señala la nutrióloga Marcela Palma, del Instituto Nacional de la Nutrición Salvador Zubirán (INN). Los anoréxicos llegan a perder por lo menos el 15% de su peso corporal y, en casos extremos, hasta el 60%, lo que puede ocasionar la muerte. El trastorno tiene diversas caras y, según Marcela Palma, puede clasificarse en etapas primaria y secundaria.

En la etapa primaria sólo se tiene un miedo intenso a subir de peso y ésta se caracteriza por dos tipos de padecimientos: la anorexia nerviosa restrictiva y la bulimarexia. En la primera, se utiliza el ayuno y la disminución exagerada de la ingestión de alimentos para controlar el peso sin utilizar el vómito o los laxantes como métodos de control. En la bulimarexia se combinan periodos de ayuno con periodos de ingestión compulsiva y después se provoca el vómito, y se aplican purgas y enemas para controlar el peso.

En la etapa secundaria, la anorexia nerviosa es consecuencia de alguna enfermedad psiquiátrica como la esquizofrenia o la depresión; en esos casos, la anorexia se debe a una interpretación falsa de la alimentación y no a la búsqueda de pérdida de peso. Por lo que respecta a la cantidad de casos de anorexia, se da más en los países sajones que en las sociedades orientales. En Latinoamérica, y específicamente en México, los estudios estadísticos y epidemiológicos son muy pocos; carecemos de la información suficiente sobre la incidencia de los trastornos de la conducta alimentaria, aunque en la actualidad diversos grupos investigan este fenómeno.

La palabra bulimia proviene del griego y significa "hambre de buey". Generalmente se presenta entre los 18 y 28 años de edad. Al igual que en la anorexia, el 95% de los pacientes bulímicos son mujeres.

Según Marcela Palma, *"este trastorno se caracteriza por la ingestión rápida de gran cantidad de alimentos; la culpabilidad provocada por el abuso al comer y la autoinducción al vómito; la utilización en forma*

indiscriminada de laxantes y diuréticos y el ejercicio excesivo, debido a que estos jóvenes tienen pavor a subir de peso. También es característico que durante mucho tiempo ellos nieguen estas conductas".

Según datos del INN, en muchos países la frecuencia de la bulimia es mayor que la de la anorexia *nervosa*, pero en México tampoco se tienen cifras sobre la incidencia de este trastorno, debido a que, aun cuando se han aplicado cuestionarios entre la población de riesgo, se esconden los síntomas.

Los jóvenes que padecen anorexia o bulimia requieren de un tratamiento integral en el que debe participar un equipo de especialistas como nutriólogos, psicoanalistas y médicos o endocrinólogos, además de la familia. La participación de ésta es fundamental, ya que los aspectos familiares son muchas veces la causa de estos trastornos. Si algún joven sospecha que puede padecer este tipo de problemas, debe recurrir a alguna instancia de salud pública o privada y evitar a tiempo el infierno que hacen vivir la anorexia nerviosa y la bulimia.

1.- ¿Cuál sería el mejor título para el texto que acabas de leer?

A) Problemas entre los jóvenes.
B) Las mujeres anoréxicas.
C) La adicción por la delgadez.
D) Enfermedades de la juventud.

2.- Por sus características el texto es de tipo:

A) Informativo.
B) Cultural.
C) Narrativo.
D) Deportivo.

3.- De acuerdo con la información del texto, las palabras bulimia y anorexia significan:

A) Miedo a comer. Comer y vomitar
B) Hambre de buey. Sin apetito.
C) Trastorno mental. Trastorno psicológico.
D) Delgadez extrema. Vómito frecuente.

4.- En el texto aparecen unas líneas en las que deben ir los subtítulos, los cuales se presentan a continuación de manera desordenada:

- **El pavor a engordar**
- **Las múltiples caras de la anorexia**
- **El infierno de la bulimia**
- **Enfermedades complejas, tratamiento integral**

Vuelve a leer el texto y determina el orden de los subtítulos que deben ir en lugar de las líneas. Si gustas puedes escribirlos y después decide cuál respuesta presenta el orden correcto.

A) Enfermedades complejas, tratamiento integral.
El pavor a engordar.
Las múltiples caras de la anorexia.
El infierno de la bulimia.

B) El pavor a engordar.
Las múltiples caras de la anorexia.
El infierno de la bulimia.
Enfermedades complejas, tratamiento integral.

C) Las múltiples caras de la anorexia.
El infierno de la bulimia.
El pavor a engordar.
Enfermedades complejas, tratamiento integral.

D) Enfermedades complejas, tratamiento integral.
El pavor a engordar.
El infierno de la bulimia.
Las múltiples caras de la anorexia.

5.- ¿Cuál de las siguientes afirmaciones **no** corresponde a la información proporcionada por el texto?

A) La anorexia pasa por dos etapas: en la primera el paciente siente un gran miedo por subir de peso y en la segunda presentan presenta trastornos psiquiátricos y depresivos.
B) La bulimia es un trastorno en el cual el paciente come en exceso, después le vienen sentimientos de culpa y posteriormente acude al vómito inducido, laxantes o diuréticos.
C) México presenta altos índices de padecimientos de anorexia y bulimia entre los jóvenes.
D) Los jóvenes que padecen anorexia sí sienten hambre pero se la aguantan por el miedo que tienen a engordar.

6.- En el texto aparecen dos frases escritas entre comillas y con letra cursiva. Localízalas, vuelve a leer esos párrafos y contesta:
¿Cuál es la razón por la que están escritas de esa manera?

A) Es información muy importante.
B) El autor del texto la quiso resaltar porque son ideas secundarias.
C) Son palabras textuales que fueron expresadas por una persona.
D) Es la opinión del autor del texto.

7.- ¿En cuál de los siguientes títulos de libros podrías encontrar más información sobre el texto leído?
A) "Conoce tu cuerpo"
B) "La vida en sociedad"
C) "El mundo del deporte"
D) "Trastornos alimenticios"

8.- El propósito de un artículo de divulgación es:

A) Brindar información a la sociedad y explicarla de manera sencilla, es decir usando un lenguaje literal.
B) Describir la vida de los animales y el cuidado del medio ambiente.
C) Informar en tiempo y forma sobre los eventos culturales de la comunidad.
D) Invitar a la gente a algún evento artístico o político.

9.- Los temas de un artículo de divulgación suelen ser:

A) Recomendaciones de libros escolares.
B) Sobre plantas y animales.
C) Campañas de limpieza.
D) Cualquier tema científico actual y de interés para la sociedad.

10.- Son los elementos de un cuento:

A) Escenas, diálogos y acotaciones.
B) Planteamiento, nudo y desenlace.
C) Historia. Nudo y desenlace.
D) Viñetas, cuadros, diálogos.

11.- "Blanca Nieves y los siete enanos", "Caperucita roja", "La bella durmiente", "La cenicienta", son algunos ejemplos de:

A) Leyendas antiguas.
B) Cuentos de ciencia-ficción.
C) Personajes infantiles.
D) Cuentos de hadas.

12.- Los estereotipos sirven para:

A) Asignar aspectos irreales a los cuentos.
B) Manifestar los gestos o movimientos de los personajes al actuar.
C) Para describir los personajes de los cuentos de hadas.
D) Informar sobre la vida de las personas.

13.- Es un texto literario que narra una historia para ser representada en una obra teatral.

A) Cuento.
B) Historieta.
C) Fábula.
D) Guión de teatro.

14.- Uno de los elementos más importantes de una obra de teatro es:

A) Un buen libreto.
B) Personajes guapos.
C) La iluminación.
D) Elegante vestuario.

15.- Una obra de teatro se divide en:

A) Capítulos. B) Actos.
C) Segmentos. D) Momentos.

Lee el siguiente fragmento de un guion teatral:

NARRADOR: Mientras caperucita recolectaba algunas flores para su abuelita…
LOBO: *(con una voz muy dulce)* ¿A dónde vas pequeña?
CAPERUCITA: A llevarle comida a mi abuelita que está enferma la pobrecita. Vive en la casa de madera al otro lado el bosque. *(Señala a lo lejos).*
LOBO: ¡No me digas! Déjame acompañarte. ¿No sabías que en el bosque hay animales peligrosos?
CAPERUCITA: *(Muy sonriente y amable)* ¡Gracias! Es usted muy amable, señor lobo.

16.- Las partes del fragmento que aparecen entre paréntesis reciben el nombre de:

A) Parlamentos.
B) Acotaciones.
C) Escenas.
D) Diálogos.

17.- Los signos de admiración e interrogación se utilizan para:

A) Describir las características físicas de los personajes.
B) Dar énfasis al parlamento que leerán los personajes.
C) Identificar qué escena sigue.
D) Organizar las ideas de los personajes.

18.- La palabra menú significa:

A) Una elección entre un conjunto de posibilidades.
B) Una colección de posibilidades.
C) Una condición para elegir en un conjunto de posibilidades.
D) Una sola opción a elegir entre un conjunto de posibilidades.

19.- Son elementos de un recetario **excepto:**

A) Secciones. B) Ingredientes.
C) Tabla de calorías. D) Personajes.

20.- ¿En cuál opción se presenta un ejemplo de menú?

A) Entrada: Ensalada verde.
Sopa: Lentejas.
Plato fuerte: Pechuga de pollo con champiñones.
Postre: Flan de nuez.
B) Ingredientes: Pollo deshebrado, lechuga picada, papas y zanahorias picadas en cuadritos, mayonesa y chile al gusto.
C) Desayuno: Una naranja, un té, dos quesadillas con lechuga.
Comida: Sopa de verduras, pollo asado, ensalada verde, agua de melón.
Cena: Cereal con leche, una manzana.
D) Proteínas, vitaminas y minerales, lípidos, carbohidratos.

MATEMÁTICAS

21. ¿Cuál es la descomposición correcta en décimos, centésimos, milésimos del siguiente número decimal? 4.837

a) 4+0.08+0.03+0.007
b) 40+0.8+0.03+0.007
c) 4+8+0.03+0.007
d) 4+0.8+0.03+0.007

22. ¿Cuál es su descomposición en fracción decimal?

a) 4+80/10+30/10+70/100
b) 4+8/10+30/100+7/1000
c) 4+8/10+3/100+70/1000
d) 4+8/10+3/100+7/1000

23. Martín ahorra cada semana. Su dinero lo acomoda en bolsitas de plástico: de la semana uno tiene $56.30, semana dos $10.5, semana tres $45.80 y la semana cuatro $9.4, ¿Cuántos juntó en total?

a) $122 b) $104.09
c) $132 d) $105.00

24. ¿Cuáles son los resultados si sumo 4 centésimos a 1.09, 1.149, 1.25, 1.110?

a) 1.13, 1.153, 1.29, 1.114
b) 1.13, 1.193, 1.33, 1.154
c) 5.09, 5.149, 5.25, 5.110
d) 1.409, 1.4149, 1.425, 1.4110

25. ¿Cómo se escribe veinticinco milésimos con fracción decimal y notación decimal?

a) 25/10000 – 0.025
b) 25/1000 – 0.25
c) 25/1000 – 0.025
d) 25/100 – 0.025

26. Pedro tiene 72 estampas de luchadores y quiere guardarlas en sobres, todos con la misma

cantidad ¿Cuáles son algunas formas posibles para guardarlas?

a) 2, 3, 4, 6, 8, 9, 12, 18
b) 2, 3, 4, 5, 6, 9, 12, 20
c) 2, 6, 8, 9, 13, 15, 21
d) 2, 4, 6, 5, 9, 8, 12, 18

27. En una tienda se quieren empacar 48 chocolates para regalo. Menciona solo algunas opciones de cómo se pueden acomodar los chocolates:

a) 2 de 24, 3 de 16, 4 de 14, 8 de 6
b) 2 de 24, 3 de 16, 4 de 12, 6 de 8
c) 2 de 20, 3 de 16, 4 de 12, 8 de 6
d) 2 de 24, 3 de 18, 4 de 12, 6 de 8

28. Don Ángel en su tienda de abarrotes tiene el frijol empaquetado para la venta rápida, de esta manera tiene bolsas de 1 kilo, ½ kilo y ¼. Si el sábado vendió 3 bolsas de ½, el domingo 7 bolsas de ¼ ¿Cuánto vendió en ambos días?

a) 3 ½ kg b) 2 ¼ kg
c) 5 ¼ kg d) 3 ¼ kg

29. En una ferretería se vende ¼ de litro de pintura en $23.40 ¿Cuánto pagaré si compro ¾?

a) $702 b) $7.02
c) $70.2 c) $93.6

30. De acuerdo al problema anterior ¿Cuánto tengo que pagar si compro 3 litros de pintura?

a) $70.2 b) $280.8
c) $28.08 d) $702

31. Elige las cifras donde el resultado de su suma sea 10:

a) 8.80 + 2.7 b) 7.25 + 1.2
c) 4.20 +5.8 d) 4.7 + 6.30

32. Elige la opción correcta para localizar la altura de una pirámide:

a)

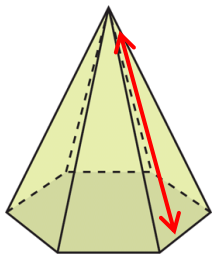

b)

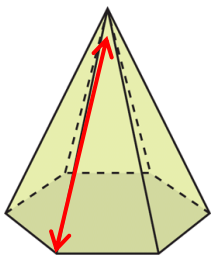

c)

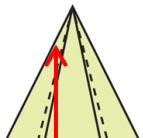

d)

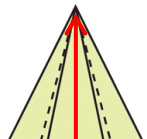

33. Observa el plano y contesta:
¿Cuáles son las coordenadas de las siguientes figuras geométricas?

K									
J									
I									
H					▲				
G									
F									
D		■							
C								◆	
B									
A1	2	3	4	5	6	7	8	9	10

a) (3,D) – (6,H) – (9,C)
b) (D,3) – (H,6) – (C,9)
c) (3,C) – (6,H) – (9,B)
d) (3,D) – (6,H) – (9,B)

Observa la siguiente gráfica y contesta las preguntas:

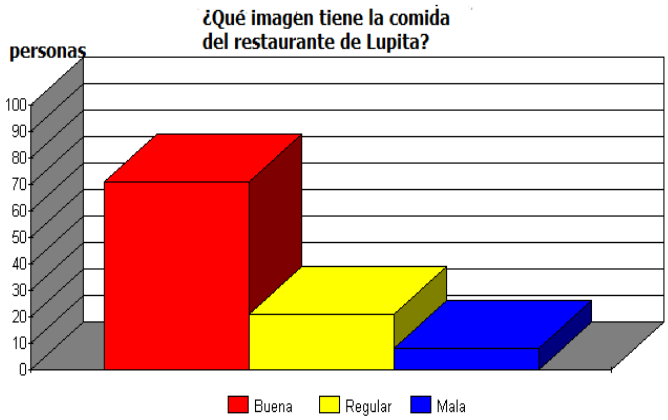

34. ¿A cuántas personas se les aplicó la encuesta?

a) Cerca de 100 personas
b) 70 personas
c) 150 personas
d) Más de mil personas

35. Aproximadamente ¿qué porcentaje de personas creen que la imagen de la comida de Lupita es buena?

a) 100% b)50 %

c) 20% d) 70%

CIENCIAS NATURALES

36.- Cuando un objeto es golpeado, vibra y genera _____ que se propagan en el _____ y que nuestros oídos perciben como_____.
Señala la opción que presenta las palabras que completan correctamente la información anterior:
A) sonido, aire, ondas.
B) ondas, aire, sonido.
C) aire, sonido, ondas.
D) ondas, sonido, aire.

37.- La intensidad del sonido se mide en:

A) Kilowatts.
B) Volumen.
C) Decibelios.
D) Decámetros.

38.-El huesecillo más pequeño del ser humano es el _____ y se localiza en el _____:
Señala la opción que presenta las palabras que completan correctamente la información anterior:

A) martillo, oído medio.
B) estribo, oído medio.
C) yunque, oído externo.
D) tímpano, oído externo.

39.- - De las siguientes acciones, ¿Cuál es la **más** adecuada para el cuidado de los oídos?

A) Retirar el cerumen todos los días.
B) Escuchar música con audífonos al volumen deseado.
C) Utilizar agua tibia para limpiar el conducto auditivo.
D) Introducir al oído sólo objetos pequeños.

40.- De los siguientes materiales ¿cuál es un aislante?
A) Plata. B) Aluminio.
C) Oro. D) Plastilina.

41.- ¿Cuáles de los siguientes elementos podrían formar parte de un circuito eléctrico?

A) Plástico y cable. B) Pila y foco.
C) madera y plata. D) Agua y aire.

42.- Los materiales que permiten el paso de la electricidad se llaman:

A) Electrónicos. B) Electromagnéticos.
C) Aislantes. D) Conductores.

43.- ¿Quién pudo haber sufrido un choque eléctrico?

A) Don Juan es electricista y usa guantes de carnaza para realizar su trabajo.
B) Pedro, antes de cambiar la lámpara de su cuarto bajó la palanca de la luz.
C) Luisito introdujo una cuchara metálica en el enchufe de la sala.
D) Adrián evita tener los aparatos eléctricos lejos de depósitos de agua.

44.- Es una sucesión de conductores por los que la electricidad hace su recorrido desde la fuente generadora hasta su lugar de consumo:
A) Extensión eléctrica. B) Circuito eléctrico.
C) Foco eléctrico. D) Corriente eléctrica.

45.- Relaciona cada fuente con el tipo de energía correspondiente y después elige la respuesta que muestra la relación correcta.

FUENTE	TIPO DE ENERGÍA
1. Viento.	**a.** Solar.
2. Cascadas.	**b.** Sonora.
3. Sonido.	**c.** Eólica.
4. Sol.	**d.** Hidráulica.

A) **1**c, **2**d, **3**b, **4**a.

B) **1**a, **2**b, **3**c, **4**d.
C) **1**d, **2**c, **3**b, **4**a.
D) **1**b, **2**d, **3**a, **4**c.

46.- Es una de las formas en que se manifiesta la energía **excepto**:
A) Olas B) Calor.
C) Movimiento. D) Reposo.

47.- ¿Quién usa un aislante de calor?
A) Doña Blanca usa solamente cucharas de acero para mezclar la comida que está cocinando.
B) Doña Clara usa pinzas de aluminio para asar la carne.
C) Doña Cande se pone guantes de tela gruesa para quitar las cacerolas de la estufa.
D) Doña Luisa usó una olla de aluminio para calentar el agua.

48.- Al colocar una cuchara dentro de una taza con agua caliente, el utensilio se calienta poco a poco, es decir, el calor se trasfiere por:
A) Conducción. B) Convección.
C) Radiación. D) Evaporación.

49.- La Tierra se calienta con los rayos del Sol, dicho proceso se llama:

A) Conducción. B) Convección.
C) Radiación. D) Evaporación.

50.- Al calentar agua en una olla, cuando llega a su punto ebullición el agua más fría desciende ocupando el lugar de la caliente, haciendo un movimiento circular llamado:

A) Conducción. B) Convección.
C) Radiación. D) Evaporación.

HISTORIA

51.- El periodo de tiempo que abarca los años 1920 a 1970 se caracterizó principalmente por:

A) El surgimiento de valientes caudillos.
B) Importantes movimientos obreros y campesinos.
C) La creación de importantes instituciones.
D) La existencia de gobiernos dictatoriales.

52.-Presidente que encabezó el primer gobierno constitucionalista surgido de la revolución:

A) Francisco I. Madero.
B) Venustiano Carranza.
C) Álvaro Obregón.
D) José Ma. Pino Suárez.

53.- Son organizaciones reconocidas por la ley que compiten en elecciones para ocupar las instituciones de gobierno.

A) Partidos políticos. B) Sindicatos.
C) Asambleas. D) Congresos.

54.- Época en la que Plutarco Elías Calles dirigió el gobierno del país, fuese o no presidente de la República Mexicana.

A) Maximato B) Caudillismo.
C) Dictadura D) Dinastía

55. Lee con atención los siguientes sucesos de la historia de México.

( ) López Mateos creó la Comisión Nacional de Libros de Texto
( ) Estalla la Rebelión cristera
( ) Nacionalización de la Industria Petrolera y la creación de PEMEX
( ) Se otorga a la mujer el derecho al voto.
( ) Movimiento estudiantil y juegos Olímpicos.
Ahora elige la opción que muestra el orden temporal en que ocurrieron los acontecimientos anteriores. Puedes escribir en los paréntesis.

A. (1),(2),(3),(4),(5)
B. (4),(1),(2),(3),(5)
C. (4),(2),(3),(1),(5)
D. (3),(2),(5),(1),(4)

56.- Movimiento armado que sucedió porque el presidente Calles dictó leyes que limitaban las actividades políticas y públicas de la iglesia.

A) Rebelión Estudiantil.

B) Rebelión Cristera.
C) Revolución Mexicana.
D) Revolución cultural.

57.- Presidente de México que decretó la Expropiación Petrolera.

A) Álvaro Obregón.
B) Adolfo López Mateos.
C) Lázaro Cárdenas.
D) Benito Juárez.

58. Institución fundada en 1921 por el presidente Álvaro Obregón

A) SEP B) PEMEX
C) CROM D) ISSSTE

59.- Caudillos que dominaron el escenario político durante la década de 1920:

A) Francisco I. Madero y Porfirio Díaz.
B) Álvaro Obregón y Plutarco Elías Calles.
C) Venustiano Carranza y Francisco Villa.
D) Lázaro Cárdenas y Adolfo López Mateos.

60.- A la época de 1940-1970 se le conoce como "milagro mexicano" porque:

A) México logró un desarrollo social y cultural, producto de la ilustración.
B) México logró y mantuvo un crecimiento económico, además de una estabilidad política.
C) Por fin Porfirio Díaz deja la presidencia después de haber gobernado más de 30 años.
D) Se logró la Expropiación Petrolera.

61.- Derecho constitucional que fue reprimido por el gobierno en el movimiento estudiantil de 1968:

A) Libertad de elección.
B) Libertad de imprenta.
C) Libertad de culto.
D) Libertad de expresión.

62.- La maestra preguntó:
"¿Por qué razón México decidió participar en la Segunda Guerra Mundial?"
¿Quién dio la respuesta correcta?

A) **Luis:** Porque Estados Unidos le pidió ayuda.
B) **Alma:** Porque les vendía alimentos y bebidas a los ejércitos en combate.
C) **Pedro:** Porque dos submarinos alemanes hundieron buques petroleros mexicanos.
D) **Norma:** Porque España le solicitó su apoyo.

63.- Fueron los llamados "países del eje" en la Segunda Guerra Mundial

A) Alemania, Italia y Japón.
B) Suecia, Estocolmo y Ámsterdam.
C) Estados Unidos, Sudáfrica y Alemania.
D) Alemania, Francia y Estados Unidos.

64.- Contingente de la fuerza aérea mexicana que fue enviado por el presidente Manuel Ávila Camacho a combatir por nuestro país como parte de los aliados en la Segunda Guerra Mundial:

A) Faja de oro.
B) Grupo bélico.
C) Escuadrón 201.
D) Expedición mexicana.

65.- Observa la siguiente línea del tiempo, en ella se ubican algunas de las instituciones que se crearon entre los años 1920 y 1970. Después selecciona la opción que la completa correctamente:

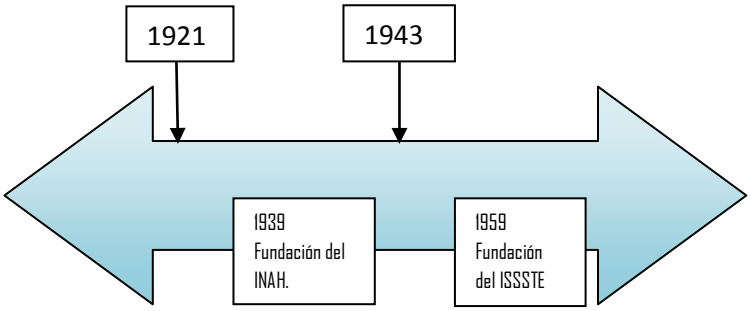

A) Fundación del PNR. Fundación del Conaliteg.
B) Fundación de la SEP. Fundación del IMSS.
C) Fundación del Conaliteg. Fundación del PNR.
D) Fundación del IMSS. Fundación de la SEP.

GEOGRAFÍA

66.- Son características de las actividades económicas del sector primario **excepto:**

A) Toman los recursos directamente de la naturaleza.
B) Proporcionan materias primas a la industria.

C) Satisfacen necesidades básicas.
D) Transforman los productos en materias primas.

67.- En este tipo de agricultura se utilizan sistemas artificiales de riego, para poder obtener más de una cosecha en el año:
A) Extensiva. B) Intensiva.
C) Temporal. D) Comercial.

68.- Don Juan practica una agricultura de subsistencia porque:

A) Tiene una granja de pollos y los vende por kilos en el mercado.
B) Trabaja en el campo para poder mantener económicamente a su familia.
C) Tiene un pequeño terreno donde siembra y cosecha frutas y verduras con los cuales se alimenta su familia.
D) Su parcela no es muy grande y los melones que cosecha los pone a la venta en las afueras de su casa.

69.- ¿Cuál de los siguientes países es el principal producto de trigo y arroz en el mundo?

A) México. B) China
C) Estados Unidos. D) Japón.

70.- A nivel mundial es el principal productor de maíz.

A) México. B) China
C) Estados Unidos. D) Japón.

71.- Son recursos no maderables **excepto:**

A) Cera. B) Goma.
C) Raíces. D) Celulosa.

72.- Este tipo de ganadería se realiza en grandes terrenos, donde los animales encuentran pastos suficientes para alimentarse.

A) Intensiva. B) Extensiva.
C) Comercial. D) De autoconsumo.

73.- A nivel mundial, México es el país principal productor de este mineral:

A) Oro. B) Plata.
C) Cobre. D) Hierro.

74.- Es la rama de la industria que genera productos de primera necesidad como alimentos, ropa, calzado, etc.

A) Industria ligera.
B) Industria pesada.
C) Industria Básica.
D) Industria Transformadora.

75.- Este tipo de industria usa grandes cantidades de recursos energéticos y agua en su funcionamiento:

A) Pesada. B) Ligera.
C) Alimentaria. D) Textil.

76.- ¿Quién **no** realiza una actividad del sector terciario?

A) Enrique tiene el puesto de gerente en un conocido hotel de Manzanillo.
B) Ana trabaja como maestra en una escuela secundaria.
C) Jaime es doctor y trabaja en el ISSSTE.
D) Claudia trabaja en la panadería que está cerca de su casa.

77.- La mayoría de las actividades del sector terciario se desarrollan en:
A) Zonas rurales. B) Zonas urbanas.
C) Zonas alejadas. D) Zonas marginadas.

78.- Es una proyección del número de años que esperan vivir los habitantes de una población:

A) Nivel de vida. B) Esperanza de vida.
C) Promedio de vida. D) Consumo de vida.

79.- Según los indicadores de la ONU ¿Cuál es el país que ocupa el primer lugar en calidad de vida:

A) Estados Unidos. B) China.
C) Noruega. D) Haití.

80.- Es el continente donde se localizan la mayoría de los países con calidad de vida baja:

A) Asia. B) Oceanía.
C) América. D) África.

FORMACIÓN CÍVICA

81.- ¿En donde se aplica la democracia?

A) El maestro de Educación Física eligió a los integrantes de la escolta sin tomar en cuenta sus calificaciones.
B) El grupo de 5º propuso algunas ideas sobre la clasificación de basura que se genera en la escuela. Todos votaron y escogieron la que consideraron mejor.
C) En la escuela se lanzó una convocatoria para un concurso de dibujo pero a Norma no le permitieron participar por ser indígena.
D) La maestra decidió quienes representarán al salón en el certamen de los reyes de la primavera.

82.- Sistema de gobierno en donde el poder lo ejerce un rey, príncipe o emperador y es de carácter vitalicio.

A) República. B) Democracia.
C) Monarquía. D) Parlamento.

83.- Determina el presupuesto asignado para todos los proyectos y programas así como para el funcionamiento del gobierno:

A) Presidente de la República.
B) Gobernador del Estado.
C) Cámara de Senadores.
D) Cámara de Diputados.

84.- En las elecciones para Presidente de la República que se llevaron a cabo en Julio de 2006 resultó ganador el Lic. Felipe Calderón Hinojosa. En qué año habrá elecciones nuevamente.

A) 2014. B) 2012.
C) 2011. D) 2010.

85.- El Profr. Carlos Cruz Mendoza resultó ganador en las elecciones para Diputado Federal del año 2009 ¿En qué año dejará su cargo?

A) 2011. B) 2012.
C) 2013. D) 2014.

86.- Actualmente el sistema de gobierno en México es una república democrática…

A) representativa y popular.
B) centralista y federal.
C) representativa y popular.
D) representativa y judicial.

87.- Daniel es reportero y trabaja en un periódico de la localidad donde vive. La semana pasada le llamó un funcionario de gobierno y le prohibió publicar notas donde se hable mal del presidente municipal. ¿Qué artículo de la Constitución otorga a Daniel el derecho de escribir y publicar escritos?

A) Artículo 3º B) Artículo 4º
C) Artículo 7º D) Artículo 8º.

88.- Artículo de la Constitución que establece tu derecho a la educación:

A) Artículo 3º B) Artículo 4º
C) Artículo 7º D) Artículo 8º

89.- Es el número de artículos que contiene nuestra Constitución.

A) 104. B) 120.
C) 139. D) 141.

90.- ¿Qué se conmemoración cívica se recuerda el 5 de Mayo?

A) La promulgación de la Constitución.
B) La Batalla de Chapultepec.
C) La Consumación de la Independencia.
D) la Batalla de Puebla.

HOJA DE RESPUESTAS

Nombre del alumno(a): _____

Grado: _____ Grupo: _____ Fecha: _____

1	Ⓐ	Ⓑ	Ⓒ	Ⓓ	**24**	Ⓐ	Ⓑ	Ⓒ	Ⓓ	**47**	Ⓐ	Ⓑ	Ⓒ	Ⓓ	**70**	Ⓐ	Ⓑ	Ⓒ	Ⓓ
2	Ⓐ	Ⓑ	Ⓒ	Ⓓ	**25**	Ⓐ	Ⓑ	Ⓒ	Ⓓ	**48**	Ⓐ	Ⓑ	Ⓒ	Ⓓ	**71**	Ⓐ	Ⓑ	Ⓒ	Ⓓ
3	Ⓐ	Ⓑ	Ⓒ	Ⓓ	**26**	Ⓐ	Ⓑ	Ⓒ	Ⓓ	**49**	Ⓐ	Ⓑ	Ⓒ	Ⓓ	**72**	Ⓐ	Ⓑ	Ⓒ	Ⓓ
4	Ⓐ	Ⓑ	Ⓒ	Ⓓ	**27**	Ⓐ	Ⓑ	Ⓒ	Ⓓ	**50**	Ⓐ	Ⓑ	Ⓒ	Ⓓ	**73**	Ⓐ	Ⓑ	Ⓒ	Ⓓ
5	Ⓐ	Ⓑ	Ⓒ	Ⓓ	**28**	Ⓐ	Ⓑ	Ⓒ	Ⓓ	**51**	Ⓐ	Ⓑ	Ⓒ	Ⓓ	**74**	Ⓐ	Ⓑ	Ⓒ	Ⓓ
6	Ⓐ	Ⓑ	Ⓒ	Ⓓ	**29**	Ⓐ	Ⓑ	Ⓒ	Ⓓ	**52**	Ⓐ	Ⓑ	Ⓒ	Ⓓ	**75**	Ⓐ	Ⓑ	Ⓒ	Ⓓ
7	Ⓐ	Ⓑ	Ⓒ	Ⓓ	**30**	Ⓐ	Ⓑ	Ⓒ	Ⓓ	**53**	Ⓐ	Ⓑ	Ⓒ	Ⓓ	**76**	Ⓐ	Ⓑ	Ⓒ	Ⓓ
8	Ⓐ	Ⓑ	Ⓒ	Ⓓ	**31**	Ⓐ	Ⓑ	Ⓒ	Ⓓ	**54**	Ⓐ	Ⓑ	Ⓒ	Ⓓ	**77**	Ⓐ	Ⓑ	Ⓒ	Ⓓ

5to Grado

Evaluación del Cuarto Bimestre / marzo-abril

9	Ⓐ	Ⓑ	Ⓒ	Ⓓ	**32**	Ⓐ	Ⓑ	Ⓒ	Ⓓ	**55**	Ⓐ	Ⓑ	Ⓒ	Ⓓ	**78**	Ⓐ	Ⓑ	Ⓒ	Ⓓ
10	Ⓐ	Ⓑ	Ⓒ	Ⓓ	**33**	Ⓐ	Ⓑ	Ⓒ	Ⓓ	**56**	Ⓐ	Ⓑ	Ⓒ	Ⓓ	**79**	Ⓐ	Ⓑ	Ⓒ	Ⓓ
11	Ⓐ	Ⓑ	Ⓒ	Ⓓ	**34**	Ⓐ	Ⓑ	Ⓒ	Ⓓ	**57**	Ⓐ	Ⓑ	Ⓒ	Ⓓ	**80**	Ⓐ	Ⓑ	Ⓒ	Ⓓ
12	Ⓐ	Ⓑ	Ⓒ	Ⓓ	**35**	Ⓐ	Ⓑ	Ⓒ	Ⓓ	**58**	Ⓐ	Ⓑ	Ⓒ	Ⓓ	**81**	Ⓐ	Ⓑ	Ⓒ	Ⓓ
13	Ⓐ	Ⓑ	Ⓒ	Ⓓ	**36**	Ⓐ	Ⓑ	Ⓒ	Ⓓ	**59**	Ⓐ	Ⓑ	Ⓒ	Ⓓ	**82**	Ⓐ	Ⓑ	Ⓒ	Ⓓ
14	Ⓐ	Ⓑ	Ⓒ	Ⓓ	**37**	Ⓐ	Ⓑ	Ⓒ	Ⓓ	**60**	Ⓐ	Ⓑ	Ⓒ	Ⓓ	**83**	Ⓐ	Ⓑ	Ⓒ	Ⓓ
15	Ⓐ	Ⓑ	Ⓒ	Ⓓ	**38**	Ⓐ	Ⓑ	Ⓒ	Ⓓ	**61**	Ⓐ	Ⓑ	Ⓒ	Ⓓ	**84**	Ⓐ	Ⓑ	Ⓒ	Ⓓ
16	Ⓐ	Ⓑ	Ⓒ	Ⓓ	**39**	Ⓐ	Ⓑ	Ⓒ	Ⓓ	**62**	Ⓐ	Ⓑ	Ⓒ	Ⓓ	**85**	Ⓐ	Ⓑ	Ⓒ	Ⓓ
17	Ⓐ	Ⓑ	Ⓒ	Ⓓ	**40**	Ⓐ	Ⓑ	Ⓒ	Ⓓ	**63**	Ⓐ	Ⓑ	Ⓒ	Ⓓ	**86**	Ⓐ	Ⓑ	Ⓒ	Ⓓ
18	Ⓐ	Ⓑ	Ⓒ	Ⓓ	**41**	Ⓐ	Ⓑ	Ⓒ	Ⓓ	**64**	Ⓐ	Ⓑ	Ⓒ	Ⓓ	**87**	Ⓐ	Ⓑ	Ⓒ	Ⓓ
19	Ⓐ	Ⓑ	Ⓒ	Ⓓ	**42**	Ⓐ	Ⓑ	Ⓒ	Ⓓ	**65**	Ⓐ	Ⓑ	Ⓒ	Ⓓ	**88**	Ⓐ	Ⓑ	Ⓒ	Ⓓ
20	Ⓐ	Ⓑ	Ⓒ	Ⓓ	**43**	Ⓐ	Ⓑ	Ⓒ	Ⓓ	**66**	Ⓐ	Ⓑ	Ⓒ	Ⓓ	**89**	Ⓐ	Ⓑ	Ⓒ	Ⓓ
21	Ⓐ	Ⓑ	Ⓒ	Ⓓ	**44**	Ⓐ	Ⓑ	Ⓒ	Ⓓ	**67**	Ⓐ	Ⓑ	Ⓒ	Ⓓ	**90**	Ⓐ	Ⓑ	Ⓒ	Ⓓ
22	Ⓐ	Ⓑ	Ⓒ	Ⓓ	**45**	Ⓐ	Ⓑ	Ⓒ	Ⓓ	**68**	Ⓐ	Ⓑ	Ⓒ	Ⓓ	**91**	Ⓐ	Ⓑ	Ⓒ	Ⓓ
23	Ⓐ	Ⓑ	Ⓒ	Ⓓ	**46**	Ⓐ	Ⓑ	Ⓒ	Ⓓ	**69**	Ⓐ	Ⓑ	Ⓒ	Ⓓ	**92**	Ⓐ	Ⓑ	Ⓒ	Ⓓ