Examen Bimestral

Segundo Grado

Cuarto Bimestre

Nombre del Alumno:_____

Grado y Grupo: _____ Fecha:_____

Escuela:_____

ASIGNATURA	***ACIERTOS***	***CALIFICACIÓN***
ESPAÑOL		
MATEMÁTICAS		
EXPLORACIÓN DEL MEDIO		
FORMACIÓN CÍVICA Y ÉTICA		
PROMEDIO		

ESPAÑOL

Lee el siguiente texto con mucha atención.

_____

- 4 Papas cocidas, peladas y cortadas en cuadritos.
- 2 Jitomates picados.
- 2 Chiles Serranos picados.
- 1 Cebolla picada.
- 3 huevos.
- _____
- _____

Preparación

- Se pone el aceite a calentar.
- Enseguida se le agregan las papas.
- Luego se ponen los demás ingredientes.
- Ya que esta todo frito se le agregan los huevos revolviendo muy bien.
- Por último se sazonan con sal.

➢ 1 a la 3. **Vuelve a leer el texto anterior y escribe sobre las líneas lo que haga falta para completar el texto**.(valor 3 puntos)

➢ **Rellena el círculo que tenga la respuesta correcta.**

4.- El texto que acabas de leer es:

◯ Una ficha informativa ◯ Una receta ◯ Una comida

5.- ¿Qué titulo le pondrías?

◯ Huevos con elote ◯ Papas con jitomate ◯ Papas con huevo

6.- Las palabras subrayadas en la siguiente oración se les llama:

4 Papas **cocidas**, **peladas** y **cortadas** en cuadritos.

◯ Comida ◯ Adjetivos ◯ Verbos

- **Lee los siguientes enunciados y completa las palabras.**

7 a la 9. Cuando __ueve los ra__os asustan a los po__itos.

10. Hay muchas personas que comen gri__os.

11. Mi abuela prepara picadi__o de res con tomate.

12. El pa__aso se comió una manzana completa.

- 13 a la 15. **Separa correctamente las palabras en el siguiente texto**.(valor 3 puntos)

Lalloronaesunaleyendaporquetienealgunoselementosdelarealidad, perotambientieneelementosirreales.

_____

_____

_____

Subraya la respuesta correcta.

16.- Prepararse antes de la exposición con papel y lápiz, escuchar con atención, anotar palabras o frases, símbolos o dibujos sencillos que te ayuden a recordar la información; son recomendaciones para:

◯ Tomar notas ◯ Hacer una receta ◯ Contar un cuento

17.- Una palabra que rima con Colima es:

◯ coco ◯ coliflor ◯ lima ◯ colmena

18 a la 22- Elabora una reseña de la leyenda de "La llorona". Recuerda escribir de qué se trata poniendo lo más importante.

_____

_____

_____

_____

_____

_____

23 a la 25. Completa el siguiente texto.

Las leyendas y los cuentos tradicionales de __éxico le gustan mucho a __osé. __odos los días toma un libro de la biblioteca de su salón.

MATEMÁTICAS

- **Colorea de azul la respuesta correcta.**

1.- ¿Cuál es el número: doscientos cuarenta y cuatro?

200404 **20044** **244** **2404**

2.- Según su posición ¿Cómo se lee el número resaltado con negritas? **2**6

veinte **dos** **decenas** **veinti**

3.- Escoge la forma correcta de escribir el número 16.

Diez y seis **Dieciseis** **Diezyseis**

4 a la 7.- Descompongan las siguientes cantidades de varias formas distintas.

78 = ☐ + ☐ **78** = ☐ + ☐

78 = ☐ + ☐ **78** = ☐ + ☐

- **Resuelve los siguientes problemas.**

8.- Miguel tenía 64 pesos y su papá le regaló 12 pesos más. Con ese dinero se compró un balón de 48 pesos. ¿Cuánto dinero le quedó?

9.- Margarita se compró en el mercado 14 pesos de plátanos y 23 pesos de manzanas. Si tenía 70 pesos ¿Cuánto dinero le sobró?

10.- ¿Cuántas llantas se necesitan para armar 7 carros?
Respuesta: _____

11.- ¿Cuánto dinero pagarías por 6 tacos que cuestan 5 pesos cada uno?
Respuesta: _____

12.- Un albañil está poniendo azulejos en la pared. Observa el dibujo y responde ¿Cuántos azulejos necesita para toda la pared?
Respuesta: _____

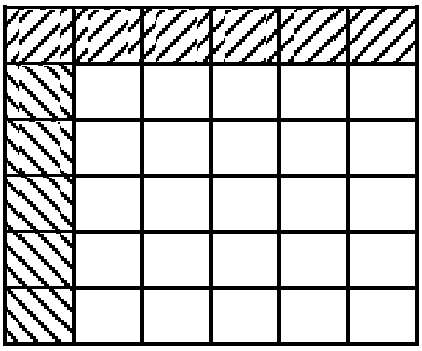

13 a la 15.- Completa la siguiente serie numérica.



- **16 a la 20. Encuentra y pinta con verde todas las operaciones donde el resultado sea 24.**

2 + 4

8 X 3

4 X 6

7 X 4

8 X 4

3 X 8

6 X 5 - 6

12 + 11

6 X 4

- **Analiza la siguiente tabla y contestas las preguntas siguientes**

Animal	Peso promedio (miles de kilogramos)	Puede llegar a vivir hasta: (años)
jirafa	1	25
Elefante marino	4	18
Orca	5	30
Elefante	7	80
Ballena boreal	75	65
Ballena azul	130	90

21.- ¿Cuál es el animal que pesa más?

_____

22.- ¿Cuál animal pesa mil kilogramos más que el elefante marino?

_____

23.- ¿Cuántos años puede vivir el elefante?

_____

24.- ¿Cuál es el animal que vive menos que una jirafa?

_____

25.- ¿Cuáles son los dos animales que pueden vivir más años?

_____

EXPLORACIÓN DE LA NATURALEZA Y LA SOCIEDAD

- **1 a la 4.- Colorea con rojo los que NO son recursos naturales.**

mesa de madera | ríos | Petróleo | mar

gasolina | plástico | Sol | camisa de algodon

- **5 a la 7.- Colorea los recursos naturales.**



- **8 a la 12.- Ordena del 1 al 5 las imágenes que representan el proceso de elaboración de la miel.**



- **13 a la 15.- Escribe sobre la línea si los productos provienen del CAMPO o de la INDUSTRIA.**





_____ _____ _____

- **16 a la 23. Escribe con una (T) si se trata de transporte terrestre, con una (M) si son marinos, con una (A) si es aéreo y con una (X) si NO es un transporte.**



- **24 a la 27. Escribe 4 servicios públicos que haya en tu localidad.**

_____ _____

_____ _____

- **28 y 29. Completa el siguiente enunciado.**

El día _____ de 1938 el presidente

_____ expropió el petróleo a las

compañías extranjeras.

- **30. Encierra con un cuadrado el rostro de la persona que expropió el petróleo.**

FORMACIÓN CÍVICA Y ÉTICA

- **Coloca una palomita ☑ donde exista democracia y con una ☒ donde no la hay.**(valor 4 puntos)

☐ En la casa de Mario, sus papás deciden que es lo que pueden hacer o no pueden hacer sus hijos.
☐ En el recreo, Pepe, que es el dueño del balón decide quien juega.
☐ El maestro y sus alumnos el primer día de clases elaboraron el reglamento del salón.
☐ Marcos con sus compañeros del equipo de futbol se ponen de acuerdo para escoger el uniforme.

- **Escribe si se trata de un DERECHO o una OBLIGACIÓN.**(valor 4 puntos)

Recibir atención médica cuando estés enfermo. _____

Cuidar tu cuerpo y tu salud. _____

Participar y que tus ideas sean tomas en cuenta. _____

Ir a la escuela a estudiar. _____

- **Rellena el círculo con la respuesta correcta.**(valor 2 puntos)

Las _____ indican lo que se puede hacer y lo que no se puede hacer.

◯ mujeres ◯ normas ◯ clases

Si tu derecho es el de: "Recibir educación gratuita", entonces una de tus obligaciones sería.

◯ sacar puros 10 ◯ cumplir con las tareas ◯ comprar los libros

- **Escribe quién es la autoridad en:** (valor 3 puntos)

La escuela: _____

Tu casa: _____

En la calle: _____

- **Encuentra rellanando el círculo donde haya una situación injusta.** (valor 3 puntos)

◯ Federico no podrá seguir estudiando porque no puede pagar la Universidad.

◯ Antonio siempre ayuda a su mamá, por eso tendrá que dejar de estudiar para cuidar a su hermanito, porque su mamá trabaja todo el día y no hay nadie quien lo cuide.

◯ A Rosa María la despidieron de su trabajo porque no fue a trabajar por más de 2 meses.